Bölme İşlemi Problemler

❒ **Problem:** Manav 25 tane karpuzu 4 tane kasaya eşit olarak yerleştirecektir. Her kasaya kaçar tane karpuz koymalıdır?





- 25 karpuz ve 4 tane kasa var.
- Karpuzları dörder gruplara ayıralım.
- 6 tane grup oluştu. 1 tane karpuz kaldı.

25 | 4
−

❒ **Problem:** Sınıfımızda 27 öğrenci var. Bütün öğrenciler sıralara üçer üçer oturdular. Kaç tane sıra vardır?



- 27 öğrenci var.
- Her sıraya üçer oturacaklar.
- Üçer üçer gruplandıralım.
- .....tane grup oluştu.

27 | 3
−

❒ Problem: Babam aldığı 12 kalemi ablamla bana eşit olarak paylaştırdı. Bana kaç kalem vermiştir?

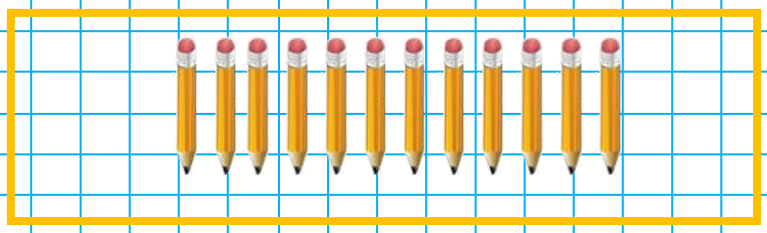



➜ 12 kalem ve 2 kişi var.

➜ Kelemleri ikişer gruplandıralım.

➜ .....tane grup oluştu.

➜ Bana ..... tane kalem vermiştir.

12 | 2

❒ Problem: Sınıfımıza 25 tane balon aldık. Sınıfımızdaki 3 pencereye eşit olarak süsledik. Her pencereye kaç balon koyduk?

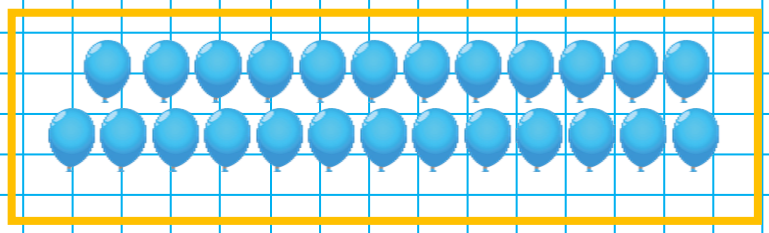

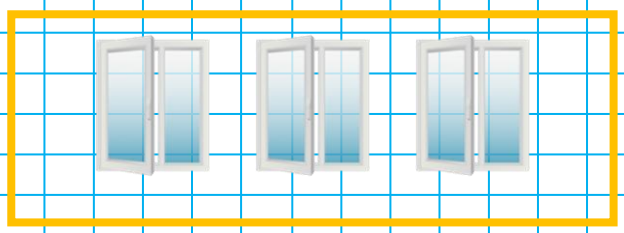

➜ 25 balon ve 3 pencere var.

➜ 25 balonu üçer gruplandıralım.

➜ ..... tane grup oluştu.

➜ Her pencereye ..... tane balon koyduk.

25 | 3